Sp小2算数

かくにんテスト 1

(10ぷん)

なまえ	・クラス・	とくてん	/50

1 つぎの けいさんを しなさい。(かく4てん)

(1) 4＋3

(2) 50＋2

(3) 40＋22

(4) 8＋5

(1)	
(2)	
(3)	
(4)	

2 □に あてはまる かずを 入れなさい。(かく3てん)

(1) 10を 7つと，1を 5つ あわせた かずは □ です。

(2) 96の 十のくらいの かずは □，一のくらいの かずは □。

3 □に あてはまる かずを 入れなさい。(かく3てん)

(1) 10 — 20 — 30 — □ — 50 — 60

(2) 80 — 82 — □ — 86 — 88 — □

4 つぎの もんだいに こたえなさい。(かく4てん)

(1) 赤い かさが 4本，青い かさが 20本 あります。
かさは あわせて なん本 ありますか。

しき	こたえ
	本

(2) ゆうこさんの いえでは きのう たまごを 7こ，きょうも 7こ たべました。あわせて たまごを なんこ たべましたか。

しき	こたえ
	こ

Sp小2算数 かくにんテスト2

(10ぷん)

なまえ	・クラス・	とくてん	/50

1 つぎの けいさんを しなさい。(かく4てん)

(1) 6－4

(2) 10－3

(3) 80－20

(4) 12－5

(1)	
(2)	
(3)	
(4)	

2 □に あてはまる かずを 入れなさい。(かく3てん)

(1) 90より 7 小さい かずは □ です。

(2) 58，39，81の かずのうち，いちばん 大きい かずは □，いちばん 小さい かずは □ です。

3 □に あてはまる かずを 入れなさい。(かく3てん)

(1) □ － 90 － 80 － 70 － 60 － 50

(2) 45 － □ － 35 － 30 － □ － 20

4 つぎの もんだいに こたえなさい。(かく4てん)

(1) おみせに ももが 28こ あります。5こ うれました。のこりは なんこに なりましたか。

しき	こたえ
	こ

(2) クッキーが 13まい あります。8まい たべました。クッキーは なんまいに なりましたか。

しき	こたえ
	まい

Sp 小 2 算数

かくにんテスト 3

(10ぷん)

なまえ	・クラス・	とくてん	/50

1 つぎの けいさんを しなさい。(かく 4 てん)

(1) 0＋12

(2) 10－3

(3) 6＋8

(4) 16－7

(1)	
(2)	
(3)	
(4)	

2 つぎの けいさんを しなさい。(かく 5 てん)

(1) 3＋40－20

(2) 38－5＋10

(1)	
(2)	

3 □に あてはまる かずを 入れなさい。(かく 4 てん)

(1) 6＋□＝15

(2) □－4＝8

4 きょうしつに 男の子が 33人，女の子が 20人 います。(かく 4 てん)

(1) どちらが なん人 おおいですか。

しき	こたえ
	の子が 人おおい

(2) あわせて なん人 いますか。

しき	こたえ
	人

Sp 小 2 算数

かくにんテスト 4

(10ぷん)

なまえ	・クラス・	とくてん	/50

1 ながい ほうに ○を つけなさい。(かく 5 てん)

(1)

( )

( )

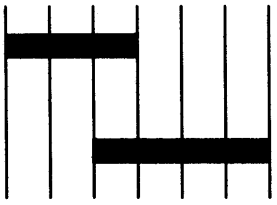

(2)

( )

( )



(3)

( )

( )



2 おおく 入る ほうに ○を つけなさい。(かく 5 てん)

(1)

( )

( )

(2)

( )

( )

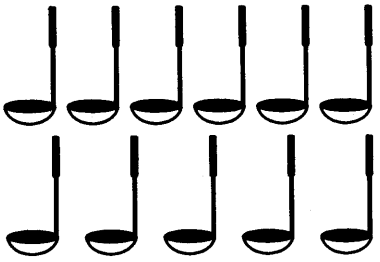

3 ひろい ほうに ○を つけなさい。(かく 5 てん)

(1)

( )

( )





(2)

( )

( )

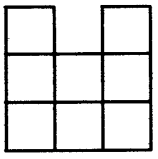

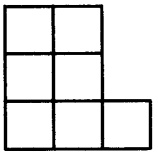

4 右の えを 見て こたえなさい。(かく 5 てん)

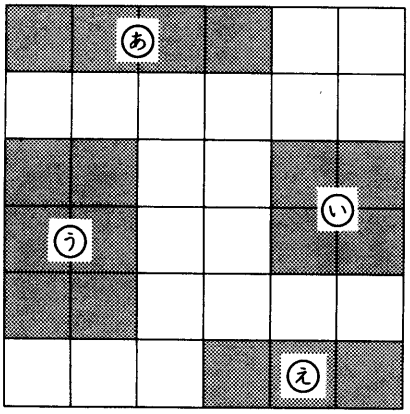

(1) いちばん ながいのは どれですか。

(2) いちばん ひろいのは どれですか。

(3) おなじ ひろさの ものは どれと どれですか。

(1)		(2)		(3)	と

Sp 小 2 算数

かくにんテスト 5

(10ぷん)

なまえ	・クラス・	とくてん	/50

1 おなじ　かたちを　□の　中から　えらびなさい。(かく 4 てん)

(1)　(2)　(3)

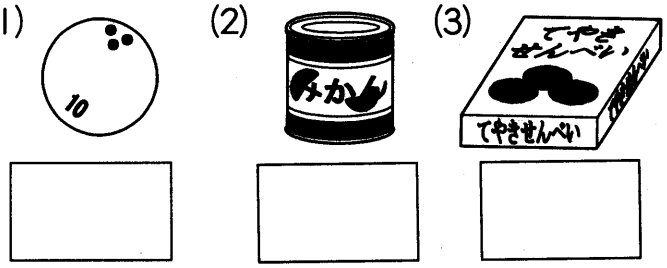

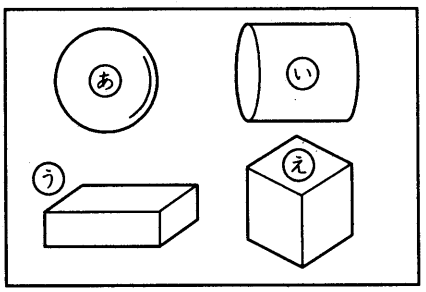

2 四かくを　2つ　えらびなさい。(かく 4 てん)

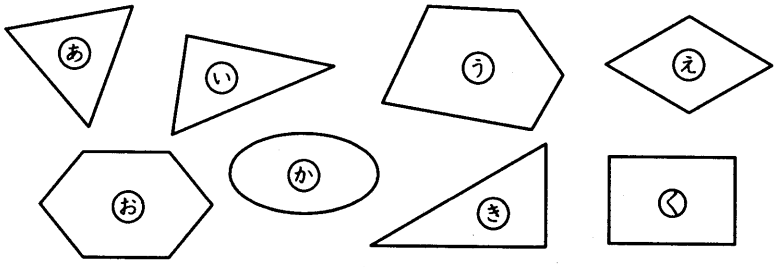

3 つぎの　ぼうを　ぜんぶ　つかって　できる　かたちは　どれですか。(かく 5 てん)

(1)　(2)　(3)

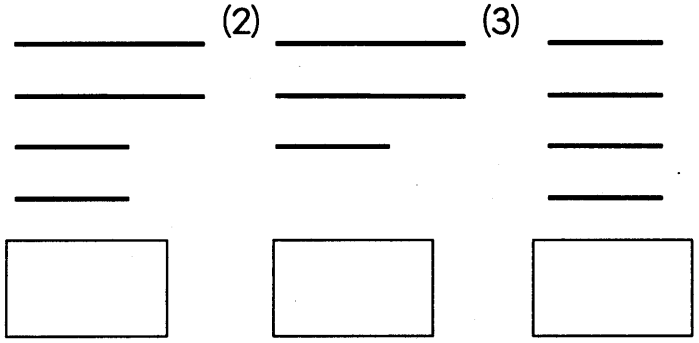

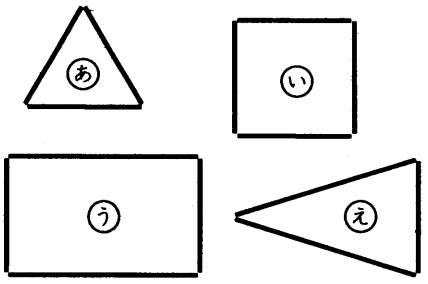

4 てんを　むすんで，三かくを　1こ　かきます。(かく 5 てん)

(1)　右の　てんを　いくつか　むすんで，三かくを　1こ　かきなさい。



(2)　なんこの　てんを　むすびましたか。

(3)　せんは　なん本　ひきましたか。

(2)	こ	(3)	本

Sp 小 2 算数

かくにんテスト6

(10ぷん)

なまえ	・クラス・	とくてん	/50

1 なんじなんぷんですか。(かく5てん)

(1)

じ

(2)

じ　ぷん

(3)

じ　ぷん

2 ながい　はりを　かきなさい。(かく5てん)

(1)　3じ

(2)　8じ30ぷん

(3)　1じ20ぷん

3 つぎの　もんだいに　こたえなさい。(かく5てん)

(1)　1日は　なんじかんですか。

(2)　1じかんは　なんぷんですか。

(1)	じかん
(2)	ぷん

(3)　10じ30ぷんの　20ぷんあとの　じこくは　なんじなんぷんですか。

(4)　10じ30ぷんの　3じかんまえの　じこくは　なんじなんぷんですか。

(3)	じ　ぷん	(4)	じ　ぷん

かくにんテスト　解答（かいとう）　《Sp小２算数》

かくにんテスト 1

1 (1) 7 (2) 52 (3) 62 (4) 13

2 (1) 75 (2) 9，6

【かんがえかた】 (1)10が７つで70，１が５つで５。70と５で75。 (2)96は90と６があわさったかず。90は10が９つ，６は１が６つあつまったかず。

3 (1) 10—20—30—40—50—60

(2) 80—82—84—86—88—90

【かんがえかた】 (2)かずは，２とびにならんでいます。

4 (1) しき…4＋20＝24

こたえ…24本

(2) しき…7＋7＝14

こたえ…14こ

かくにんテスト 2

1 (1) 2 (2) 7 (3) 60 (4) 7

2 (1) 83 (2) 81，39

【かんがえかた】 (2)十のくらいのかずの大きさをくらべます。

3 (1) 100—90—80—70—60—50

(2) 45—40—35—30—25—20

【かんがえかた】 (2)かずは，５とびにならんでいます。

4 (1) しき…28－5＝23

こたえ…23こ

(2) しき…13－8＝5

こたえ…5まい

かくにんテスト 3

1 (1) 12 (2) 7 (3) 14 (4) 9

2 (1) 23 (2) 43

3 (1) 9 (2) 12

【かんがえかた】 (1)15から６をひいたかずです。 (2)8に4をたしたかずです。

4 (1) しき…33－20＝13

こたえ…男の子が13人おおい

(2) しき…33＋20＝53

こたえ…53人

かくにんテスト 4

1 (1) 下に○ (2) 下に○

(3) 上に○

2 (1) 下に○ (2) 上に○

3 (1) 右に○ (2) 左に○

【かんがえかた】 (2)小さい□のかずをかぞえます。左は８こ，右は７こです。

4 (1) ㋐ (2) ㋒ (3) ㋐と㋑

【かんがえかた】 (1)㋐は□4こぶん，㋑は□2こぶん，㋒と㋓は□3こぶんのながさです。 (2)，(3)㋐と㋑は□4こぶん，㋒は□6こぶん，㋓は□3こぶんのひろさです。

かくにんテスト 5

1 (1) ㋐ (2) ㋑ (3) ㋒

2 ㋓，㋕

【かんがえかた】 四かくは，４本のせんでかこまれたかたちです。

3 (1) ㉁ (2) ㉂ (3) ㉀

4 (1) (れい)

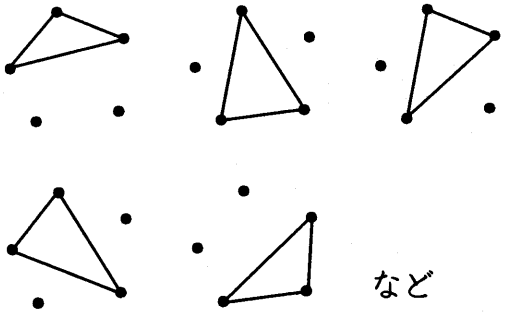

など

※ぜんぶで10しゅるいあります。

(2) ３こ (3) ３本

【かんがえかた】 三かくは，３つのてんを３本のせんでむすんだかたちです。

かくにんテスト6

1 (1) ９じ (2) ４じ30ぷん

(3) ７じ50ぷん

【かんがえかた】 とけいのながいはりは，ふんを，みじかいはりは，じかんをあらわしています。とけいのすうじは，じかんを，小さなめもりは，ふんをあらわしています。

2 (1)



(2)



(3)

3 (1) 24じかん (2) 60ぷん

(3) 10じ50ぷん (4) ７じ30ぷん

【かんがえかた】 (3)30ぷんに20ぷんたすと50ぷん。 (4)10じから３じかんひいて７じ。