W小1さんすう かくにんテスト 1

（10ぷん）

なまえ	・クラス・	とくてん	/50

1 つぎの　けいさんを　しなさい。（かく4てん）

(1)　7＋5

(2)　30＋6

(3)　40＋60

(4)　82＋10

(1)	
(2)	
(3)	
(4)	

2 □に　あてはまる　かずを　いれなさい。（かく3てん）

(1)　10を　3つと，1を　8つ　あわせた　かずは □ です。

(2)　52は　10を □ つと，1を □ つ　あわせた　かずです。

3 □に　あてはまる　かずを　いれなさい。（かく3てん）

(1)　43 — 44 — 45 — □ — 47 — 48

(2)　20 — 25 — □ — 35 — 40 — □

4 つぎの　もんだいに　こたえなさい。（かく4てん）

(1)　おんなのこが　20にん　います。おとこのこが　6にん　きました。あわせて　なんにんに　なりましたか。

しき	こたえ
	にん

(2)　あめが　42こ　あります。7こ　もらいました。あめは　ぜんぶで　なんこ　ありますか。

しき	こたえ
	こ

W小1さんすう かくにんテスト 2

（10ぷん）

なまえ	・クラス・	とくてん	/50

1 つぎの けいさんを しなさい。（かく4てん）

(1) 8－4

(2) 19－7

(3) 100－40

(4) 66－20

(1)	
(2)	
(3)	
(4)	

2 □に あてはまる かずを いれなさい。（かく4てん）

(1) □は 100より 20 ちいさい かずです。

(2) 43は □より 3 ちいさい かずです。

3 つぎの かずを おおきい じゅんに ならべなさい。（かく5てん）

(1) 77　71　73

(2) 19　35　23

(1)	
(2)	

4 つぎの もんだいに こたえなさい。（かく4てん）

(1) みかんが 18こ あります。9こ たべました。みかんは なんこ のこって いますか。

しき	こたえ
	こ

(2) ふうせんが 82こ あります。30こ くばりました。ふうせんは なんこ のこって いますか。

しき	こたえ
	こ

W小1さんすう かくにんテスト 3

（10ぷん）

なまえ	・クラス・	とくてん	/50

1 つぎの けいさんを しなさい。（かく4てん）

(1) 2＋8＋6

(2) 17－7－3

(3) 30－20＋9

(4) 83－50＋4

(1)	
(2)	
(3)	
(4)	

2 つぎの もんだいに こたえなさい。（(1), (2)かく3てん, (3)かく4てん）

(1) けんたさんは りんごを 12こ，ともみさんは りんごを 7こ もって います。

① りんごは あわせて なんこ ありますか。

しき	こたえ
	こ

② けんたさんの りんごは ともみさんより なんこ おおいですか。

しき	こたえ
	こ

(2) しんごさんは おりがみを 40まい もって います。おねえさんに 8まい もらいましたが，20まい つかいました。おりがみは なんまいに なりましたか。1つの しきに かいて もとめなさい。

しき	こたえ
	まい

(3) あおい たまが 64こ，あかい たまが 30こ あります。

① たまは あわせて なんこ ありますか。

しき	こたえ
	こ

② どちらの たまが なんこ おおいですか。

しき	こたえ
	たまが こおおい

W小1さんすう かくにんテスト 4

（10ぷん）

なまえ	・クラス・	とくてん	/50

1 ながい　ほうに　○を　つけなさい。（かく5てん）

(1)

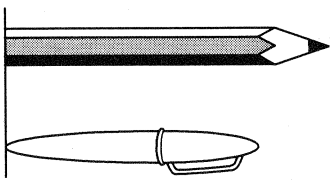

（　　）

（　　）

(2)

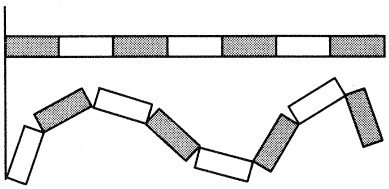

（　　）

（　　）

2 おなじ　こっぷで　みずを　いれました。みずが　おおく　はいる　ほうに　○を　つけなさい。（かく5てん）

(1)　（　　）　（　　）

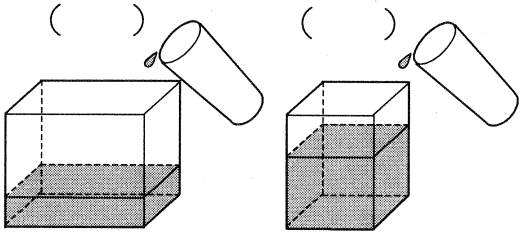

(2)　（　　）　（　　）

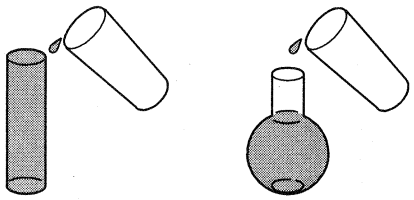

3 みじかい　じゅんに　きごうを　かきなさい。（かく5てん）

(1)

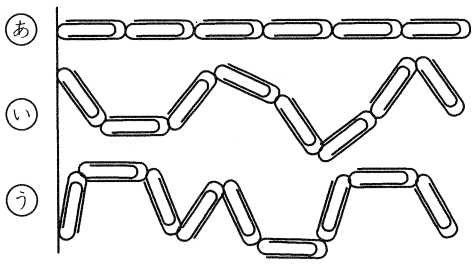

(2)

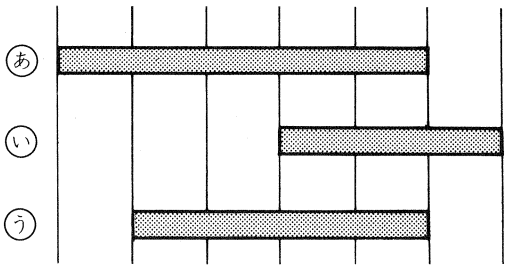

(1)		(2)	

4 どちらの　ほうが　おおくの　みずが　はいりますか。（10てん）

あ

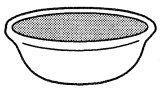

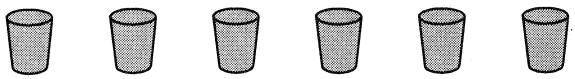

い





5 ひろい　ほうに　○を　つけなさい。（かく5てん）

(1)　（　　）　（　　）

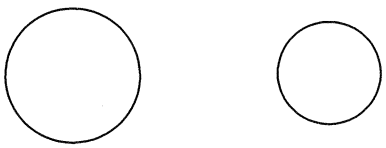

(2)　（　　）　（　　）

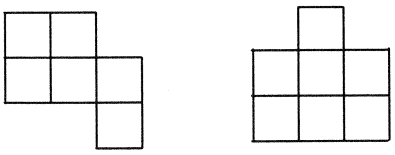

W小1さんすう かくにんテスト 5

（10ぷん）

なまえ	・クラス・	とくてん	/50

1 おなじ かたちを みぎの □ の なかから えらびなさい。（かく5てん）

(1) 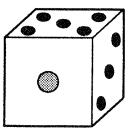

(2)

(3) 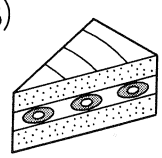

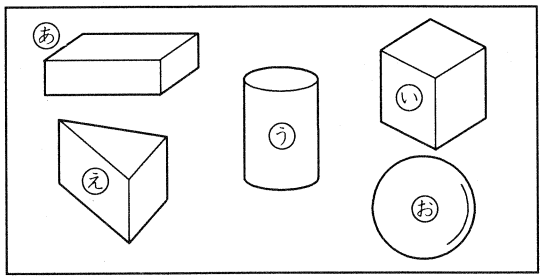

2 さんかくと しかくを えらんで，きごうを かきなさい。（かく5てん）

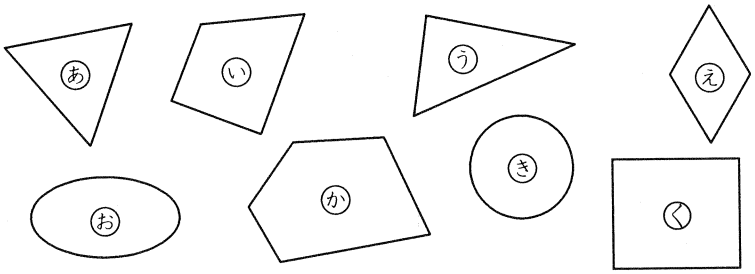

さんかく □

しかく □

3 つぎの ぼうを ぜんぶ つかって できる かたちは どれですか。（10てん）

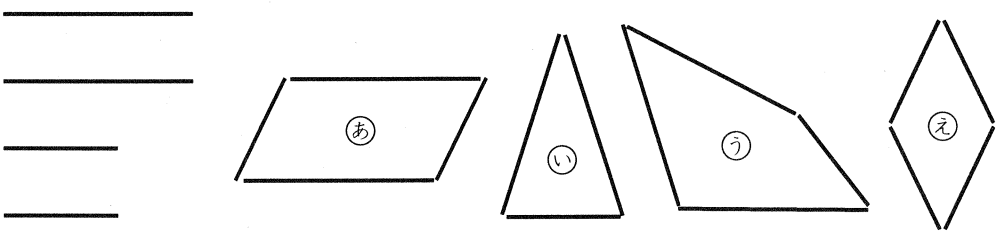

□

4 ちがう なかまの かたちは どれですか。（5てん）

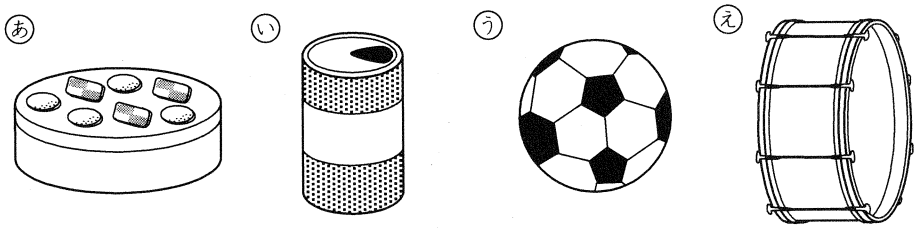

□

5 みぎの しかくに せんを 1ぽん ひいて，
さんかくを 2つ つくりなさい。（10てん）



W小1さんすう かくにんテスト ⑥

（10ぷん）

なまえ	・クラス・	とくてん	/50

1 つぎの　けいさんを　しなさい。（かく４てん）

(1)　３＋６

(2)　８８－４

(3)　７＋７＋５

(4)　２７＋３０－２

(1)	
(2)	
(3)	
(4)	

2 どちらが　ひろいですか。まわりは，どちらが　ながいですか。（かく４てん）



□ がひろい。

□ がながい。

3 さんかくと　しかくを　えらんで，きごうを　かきなさい。（かく５てん）

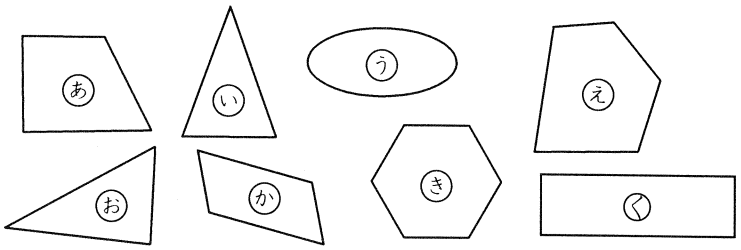

さんかく □

しかく □

4 つぎの　もんだいに　こたえなさい。（かく４てん）

(1)　いちごが　２０こ，みかんが　４３こ　あります。あわせて　なんこ　ありますか。

しき	こたえ　　こ

(2)　のぞみさんは　あめを　１４こ　もって　います。いもうとに　５こ　あげましたが，おとうさんから　８こ　もらいました。あめは　なんこに　なりましたか。１つの　しきに　かいて　もとめなさい。

しき	こたえ　　こ

W小1さんすう かくにんテスト 1

（10ぷん）

なまえ	・クラス・	とくてん	/50

1 つぎの けいさんを しなさい。（かく4てん）

(1) 7＋5

(2) 30＋6

(3) 40＋60

(4) 82＋10

(1)	12
(2)	36
(3)	100
(4)	92

2 □に あてはまる かずを いれなさい。（かく3てん）

(1) 10を 3つと，1を 8つ あわせた かずは 38 です。

(2) 52は 10を 5 つと，1を 2 つ あわせた かずです。

3 □に あてはまる かずを いれなさい。（かく3てん）

(1) 43 — 44 — 45 — 46 — 47 — 48

(2) 20 — 25 — 30 — 35 — 40 — 45

4 つぎの もんだいに こたえなさい。（かく4てん）

(1) おんなのこが 20にん います。おとこのこが 6にん きました。あわせて なんにんに なりましたか。

しき	こたえ
20＋6＝26	26 にん

(2) あめが 42こ あります。7こ もらいました。あめは ぜんぶで なんこ ありますか。

しき	こたえ
42＋7＝49	49 こ

W小1さんすう かくにんテスト 2

（10ぷん）

なまえ	・クラス・	とくてん	/50

1 つぎの けいさんを しなさい。（かく 4 てん）

(1) 8－4

(2) 19－7

(3) 100－40

(4) 66－20

(1)	4
(2)	12
(3)	60
(4)	46

2 □に あてはまる かずを いれなさい。（かく 4 てん）

(1) 80 は 100より 20 ちいさい かずです。

(2) 43は 46 より 3 ちいさい かずです。

3 つぎの かずを おおきい じゅんに ならべなさい。（かく 5 てん）

(1) 77　71　73

(2) 19　35　23

(1)	77, 73, 71
(2)	35, 23, 19

4 つぎの もんだいに こたえなさい。（かく 4 てん）

(1) みかんが 18こ あります。9こ たべました。みかんは なんこ のこって いますか。

しき	こたえ
18－9＝9	9 こ

(2) ふうせんが 82こ あります。30こ くばりました。ふうせんは なんこ のこって いますか。

しき	こたえ
82－30＝52	52 こ

W小1さんすう かくにんテスト 3

（10ぷん）

なまえ	・クラス・	とくてん	/50

1 つぎの　けいさんを　しなさい。（かく4てん）

(1)　2＋8＋6

(2)　17－7－3

(3)　30－20＋9

(4)　83－50＋4

(1)	16
(2)	7
(3)	19
(4)	37

2 つぎの　もんだいに　こたえなさい。（(1)，(2)かく3てん，(3)かく4てん）

(1)　けんたさんは　りんごを　12こ，ともみさんは　りんごを　7こ　もって　います。

①　りんごは　あわせて　なんこ　ありますか。

しき	こたえ
12＋7＝19	19こ

②　けんたさんの　りんごは　ともみさんより　なんこ　おおいですか。

しき	こたえ
12－7＝5	5こ

(2)　しんごさんは　おりがみを　40まい　もって　います。おねえさんに　8まい　もらいましたが，20まい　つかいました。おりがみは　なんまいに　なりましたか。1つの　しきに　かいて　もとめなさい。

しき	こたえ
40＋8－20＝28	28まい

(3)　あおい　たまが　64こ，あかい　たまが　30こ　あります。

①　たまは　あわせて　なんこ　ありますか。

しき	こたえ
64＋30＝94	94こ

②　どちらの　たまが　なんこ　おおいですか。

しき	こたえ
64－30＝34	あおいたまが　34こおおい

W小1さんすう かくにんテスト 4

（10ぷん）

なまえ	・クラス・	とくてん	/50

1 ながい　ほうに　○を　つけなさい。（かく5てん）

(1)

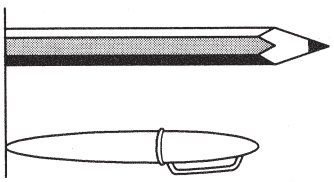

（○）

（　）

(2)

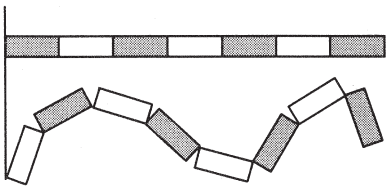

（　）

（○）

2 おなじ　こっぷで　みずを　いれました。みずが　おおく　はいる　ほうに　○を　つけなさい。（かく5てん）

(1)　（○）　（　）

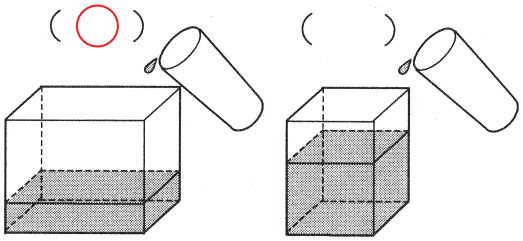

(2)　（　）　（○）

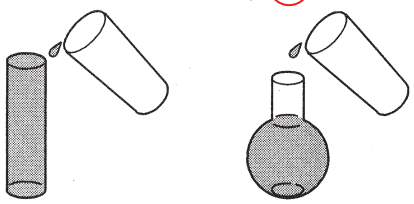

3 みじかい　じゅんに　きごうを　かきなさい。（かく5てん）

(1)

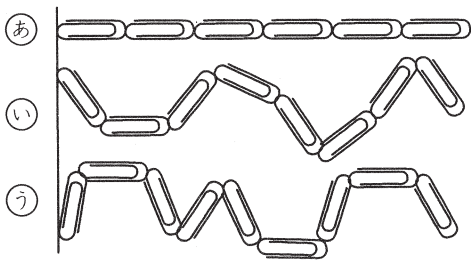

(2)

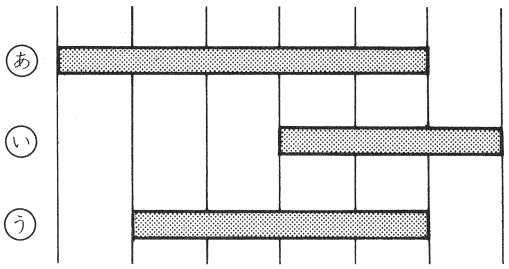

(1)	あ，い，う	(2)	い，う，あ

4 どちらの　ほうが　おおくの　みずが　はいりますか。（10てん）

あ

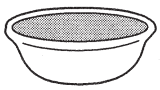

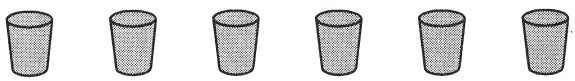

い



い

5 ひろい　ほうに　○を　つけなさい。（かく5てん）

(1)　（○）　（　）

(2)　（　）　（○）

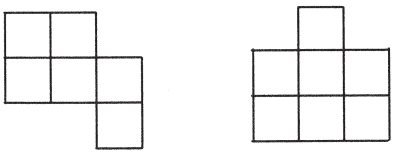

W小1さんすう かくにんテスト 5

（10ぷん）

なまえ	・クラス・	とくてん	/50

1 おなじ かたちを みぎの □ の なかから えらびなさい。（かく5てん）

(1) 

い

(2)

お

(3) 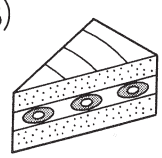

え

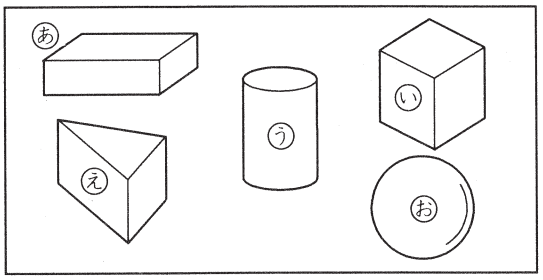

2 さんかくと しかくを えらんで，きごうを かきなさい。（かく5てん）

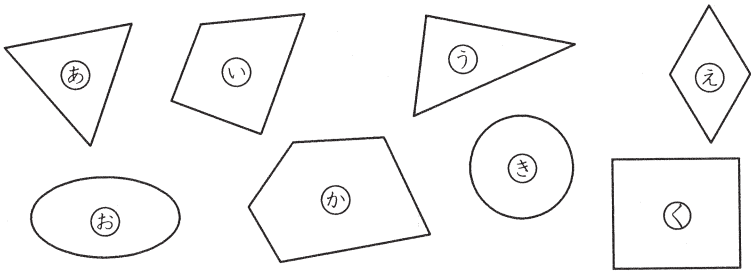

さんかく あ，う

しかく い，え，く

3 つぎの ぼうを ぜんぶ つかって できる かたちは どれですか。（10てん）

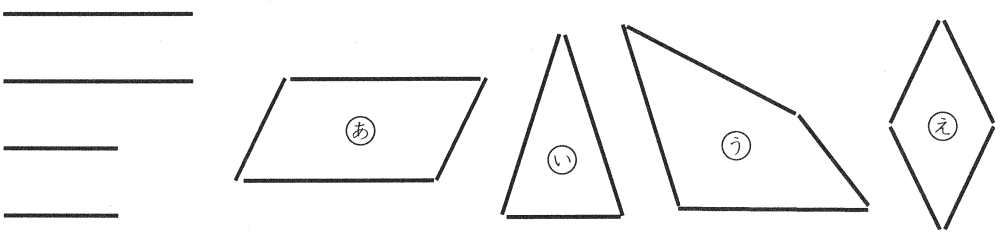

あ

4 ちがう なかまの かたちは どれですか。（5てん）

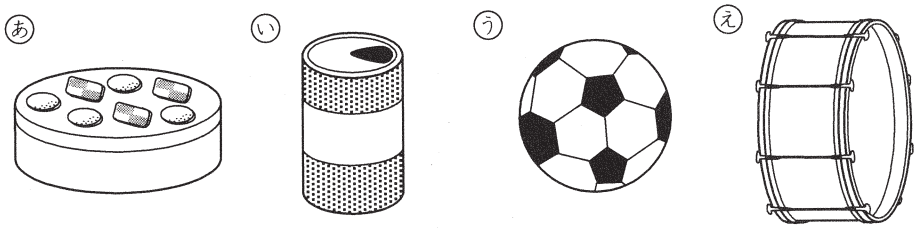

う

5 みぎの しかくに せんを 1ぽん ひいて，さんかくを 2つ つくりなさい。（10てん）

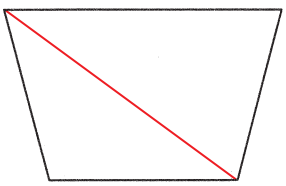

または

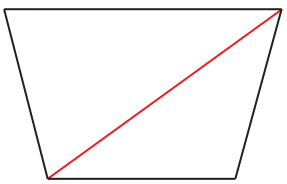

W小1さんすう

かくにんテスト 6

（10ぷん）

なまえ	・クラス・	とくてん	/50

1 つぎの　けいさんを　しなさい。（かく４てん）

(1)　３＋６

(2)　８８－４

(3)　７＋７＋５

(4)　２７＋３０－２

(1)	9
(2)	84
(3)	19
(4)	55

2 どちらが　ひろいですか。まわりは，どちらが　ながいですか。（かく４てん）



あ　がひろい。

い　がながい。

3 さんかくと　しかくを　えらんで，きごうを　かきなさい。（かく５てん）

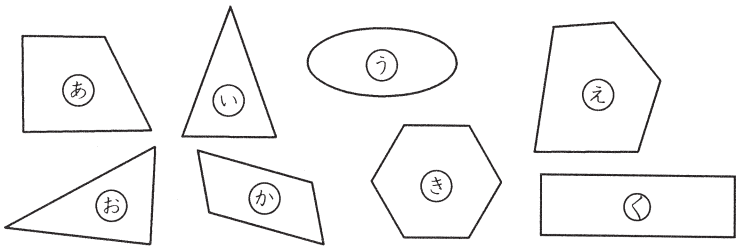

さんかく　い，お

しかく　あ，か，く

4 つぎの　もんだいに　こたえなさい。（かく４てん）

(1)　いちごが　２０こ，みかんが　４３こ　あります。あわせて　なんこ　ありますか。

しき	こたえ
20＋43＝63	63 こ

(2)　のぞみさんは　あめを　１４こ　もって　います。いもうとに　５こ　あげましたが，おとうさんから　８こ　もらいました。あめは　なんこに　なりましたか。１つの　しきに　かいて　もとめなさい。

しき	こたえ
14－5＋8＝17	17 こ